**Die Senatorin für Bildung,
Wissenschaft und Gesundheit**

**Freie
Hansestadt
Bremen**

Zentrale Abschlussprüfung 10 zur Erlangung des Mittleren Schulabschlusses

2012

Mathematik (A)

Lehrerhinweise und Lösungen

1. Wahlaufgaben / Zeiten / Hilfsmittel

a) Wahlaufgaben

Es gibt zwei Wahlaufgaben aus dem Bereich Geometrie („Kunstunterricht“ und „Fallturm“), von denen eine vorher ausgewählt werden muss. Dies geschieht für alle Schülerinnen und Schüler einer Klasse einheitlich durch die Fachlehrerin oder durch den Fachlehrer.

b) Bearbeitungszeiten und Hilfsmittel

Für den Teil 1 sind 30 Minuten vorgesehen. Es werden Geodreieck und Bleistift benötigt. Taschenrechner und Formelsammlung sind nicht zugelassen.

Der Teil 2 umfasst eine Bearbeitungszeit von maximal 60 Minuten. Taschenrechner sind zugelassen. Es darf die in der Klasse verwendete Formelsammlung (auch eine selbst erstellte) benutzt werden.

Zwischen dem Teil 1 und dem Teil 2 soll eine Pause liegen.

Der **Teil 1** wird auf den **Aufgabenblättern** bearbeitet. Für zusätzliche Rechnungen ist dort entsprechender Platz vorgesehen.

Die Schülerinnen und Schüler erhalten für den **Teil 2** kariertes Papier von der Schule.

Die Schülerinnen und Schüler müssen **alle** verwendeten Blätter (Aufgabenblätter, Arbeitsblätter sowie alle Blätter mit Nebenrechnungen) mit Namen versehen und zusammen mit ihrer Arbeit abgeben.

2. Punktbewertung

Alternative Lösungswege, sofern sie mathematisch korrekt sind, werden entsprechend bewertet.

Weichen Ergebnisse durch anderes Runden geringfügig von den Musterlösungen ab, so können sie wie die Musterlösungen gewertet werden.

Ungenaue Ergebnisse, die durch probierende Verfahren erzielt wurden, sowie teilweise korrekte Lösungen sind anteilig zu bewerten. Es werden **nur ganze Punkte** gegeben!

Notenschlüssel

Note	1	2	3	4	5	6
Punkte	72 - 61	60 - 51	50 - 40	39 - 29	28 - 14	13 - 0

3. Auswertungsübersicht und Rückmeldebogen

Auf Wunsch einiger Schulen haben wir an das Ende dieser Lehrerhinweise einen Auswertungsbogen angehängt, in den zur Vorbereitung auf die internetgestützte Dateneingabe alle Schülerergebnisse eingetragen werden können. Sie können diesen Auswertungsbogen auch über das ZAP-Internetportal unter dem Menupunkt „Materialien“ herunterladen oder ausdrucken.

Zusätzlich finden Sie am Ende dieser Lehrerhinweise auch einen Rückmeldebogen, über den Sie uns Ihre Anmerkungen und Verbesserungsvorschläge mitteilen können.

Bei eventuellen Nachfragen steht Ihnen der folgende Kollege am Prüfungstag telefonisch zur Verfügung:

Teil 1		**Punkte**
1	a) = 28,12 b) = 18,07 c) = - 42 d) = 6 cm^2 e) = $\frac{1}{15}$	**1** **1** **1** **1** **1**
2	A = 2*(2cm*6cm) = 24cm^2	**2**
3	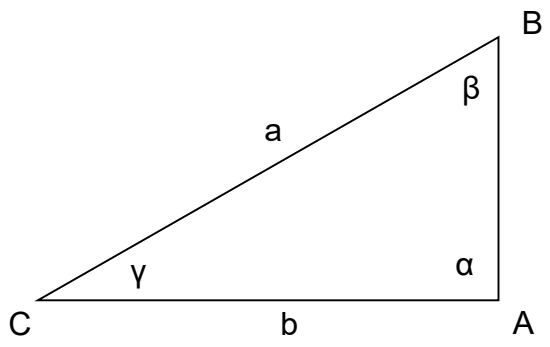	**2**
4	$\frac{4}{10} = \frac{2}{5}$	**1**
5	a) 1 | 3 | 9 | 15 | 17 b) Spannweite =16 c) Mittelwert = 9 d) Zentralwert = 9	**1** **1** **1** **1**
6	$m = \frac{y_b - y_a}{x_b - x_a} = \frac{6-2}{8-3} = \frac{4}{5} = 0,8$	**2**
7	$b = \frac{60m^2}{12m} = 5m$	**2**

8

	Heft, liniert	Heft, kariert	Block DIN-A5	Bleistift	Lineal	Radiergummi
Strichliste	~~IIII~~ ~~IIII~~ ~~IIII~~ III	~~IIII~~ ~~IIII~~ ~~IIII~~ III	~~IIII~~ ~~IIII~~ II	~~IIII~~ I	~~IIII~~ III	~~IIII~~ ~~IIII~~
Häufigkeit	18	18	**12**	6	8	10
Winkel (°)	90	90	**60**	30	40	50

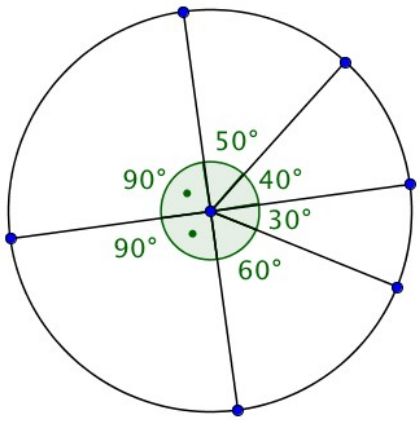

4

9

	A	B	C
1	**Grundfläche**	**Höhe**	**Volumen**
2			**= A2 * B2**

2

Teil 1 Gesamt 24

Teil 2		**Punkte**
1. Temperatur	**Gesamt**	**16**
a)	1,8 · (-7) + 32 = 19,4°F	**3**
b)	(60-32) : 1,8 = 15,56°C	**4**
c)	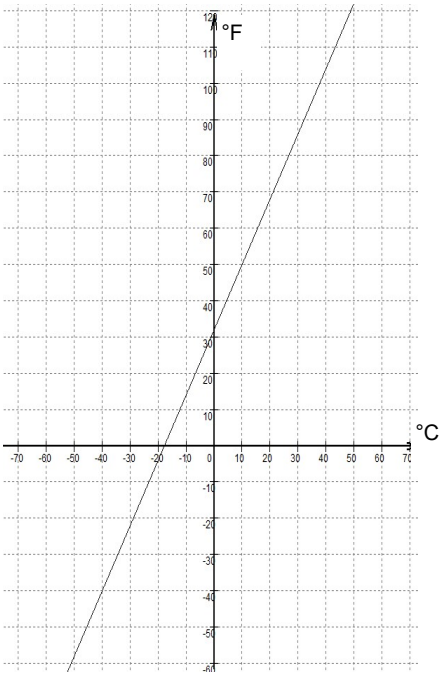	**4**
	Ca. - 45°C	**1**
d)	Lösung durch Aufstellen und Umformen einer Gleichung x = 1,8 · x + 32 oder systematischen Probieren Es ergibt sich -40°F = -40°C	**4**
2. Süßigkeiten	**Gesamt**	**16**
a)	P(„er erhält keine Lakritzstange“) = $1-\frac{8}{24}=\frac{2}{3}$	**2**
b)	P(„er erhält zwei weiße Mäuse“) (Ziehen ohne Zurücklegen)= $\frac{4}{24}\cdot\frac{3}{23}=\frac{1}{46}$	**4**
c)	P(„keine Gummibärchen“) = $\frac{12}{24}\cdot\frac{11}{23}=\frac{11}{46}$	**5**
d)	P(„er erhält zwei gleiche Süßigkeiten“) = $\frac{4}{24}\cdot\frac{3}{23}+\frac{12}{24}\cdot\frac{11}{23}+\frac{8}{24}\cdot\frac{7}{23}=\frac{25}{69}$	**5**

3. Kunstunterricht (Erste Wahlaufgabe)	**Gesamt**	**16**
a)	$A = \frac{1}{4} \cdot \pi \cdot 50^2 \approx 1963{,}50 cm^2$	**4**
b)	Berechnung des Bogens des Viertelkreises: $b = \frac{1}{4} U \quad U = \pi \cdot d = \pi \cdot 100 \approx 314{,}16 cm$ Daraus folgt dann $b \approx 78{,}54 cm$. (b ist der Umfang der Kegelöffnung)	**4**
c)	b ist der Umfang des kreisförmigen Kegeldeckels. Also gilt: $78{,}54 = 2 \cdot \pi \cdot r$ Und damit r = 12,5cm. Die Fläche des Kegeldeckels ist dann: $A = \pi \cdot r^2 \approx 490{,}87 cm^2$ Für die Rechnung mit b = 80cm ergibt sich $r \approx 12{,}73 cm$ und dann $A \approx 509{,}1 cm^2$	**4**
d)	$a^2 = h^2 + \left(\frac{b}{2}\right)^2$ a = 50 cm , h = 48,3 cm $\Rightarrow b \approx 25{,}9 cm$	**4**
3. Fallturm (Zweite Wahlaufgabe)	**Gesamt**	**16**
a)	V = (1,75m)² · π · 122m ≈ 1173,78m³	**4**
b)	1700m³ · 3 = 5100m³ 5100m³ : 0,28m³/s ≈ 18214,29s 18214,29s entspricht gerundet 303,57min. 303,57min entspricht gerundet 5 Stunden und 4 Minuten.	**6**
c)	M = r · s · π s = $\sqrt{(3{,}25m)^2 + (16m)^2}$ ≈ 16,33m M = 3,25m · 16,33m · π ≈ 166,73m² 166,73m² · 0,9 ≈ 150,06m² Die Größe der Glasfläche beträgt 150m².	**6**
	Teil 2 Gesamt	**48**
	Gesamt	**72**